Facoltà di Ingegneria Civile e Industriale
Ambiente e Territorio, Sicurezza

Scienza delle Costruzioni

Paolo Casini

Dipartimento di Ingegneria Strutturale e Geotecnica
Università di Roma *La Sapienza*

E-mail: p.casini@uniroma1.it
pagina web: www.pcasini.it/disg/sdc

Testo di riferimento:
Paolo Casini, Marcello Vasta. *Scienza delle Costruzioni*, CittàStudi DeAgostini, 4° Edizione, 2020

SAPIENZA
UNIVERSITÀ DI ROMA

Parte I - Il modello di corpo rigido

- Definizioni, notazioni, limiti del modello
- Sistemi di corpi rigidi
- Cinematica del corpo rigido
- Statica del corpo rigido

Parte I - Il modello di corpo rigido
2. Statica del corpo rigido

- **Obiettivi**
- **Modello delle forze esterne**
  - forza concentrata, momento di una forza
  - sistemi di forze
  - forze distribuite
- **I vincoli: prestazioni statiche**
- **Equazioni cardinali della statica**
- **Il problema statico**
- **Classificazione statica**
- **Esercizi** (sito: E04-E06, testo: §3.6-3.8)

2. Statica del corpo rigido: obiettivi

Obiettivo 1. Assegnato un sistema di corpi rigidi vincolato, definire il modello atto a caratterizzare le **forze esterne** agenti. Le forze esterne agenti sui corpi si suddividono in due classi: *forze esterne attive* e *forze esterne reattive* o vincolari. Le forze reattive, generalmente incognite a priori, sono quelle erogate dai vincoli in risposta alle forze attive

Obiettivo 2. Definire le condizioni analitiche che devono rispettare le forze esterne (attive e reattive) affinché la configurazione occupata dal sistema sia d'**equilibrio**.

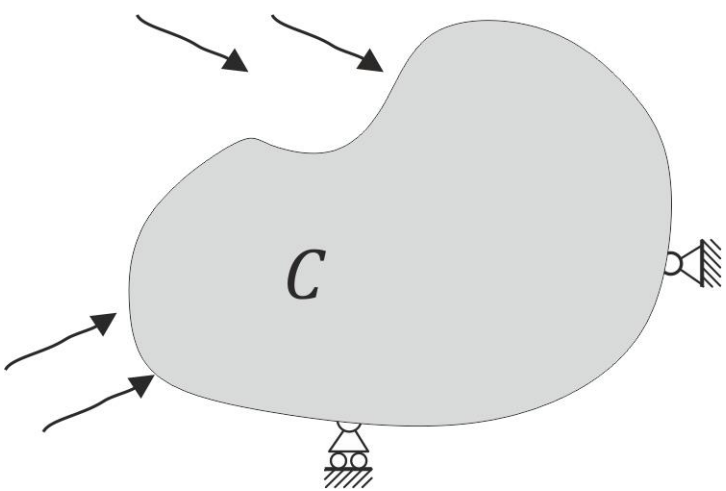

Una configurazione C si dice di *equilibrio* per un sistema se, ponendo il sistema in C con atto di moto nullo, il sistema vi permane in *quiete*

Γ^a : *forze esterne attive*

Γ^v : *forze esterne reattive*

2. Statica del corpo rigido: forze esterne

Forze concentrate

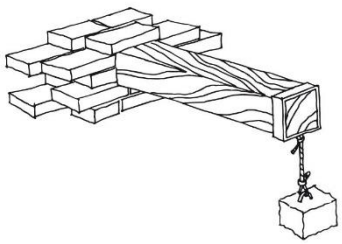

Sistemi di forze

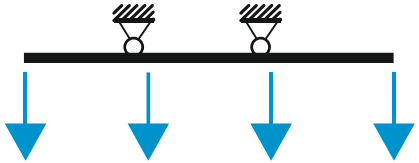

Densità di forza, forze distribuite

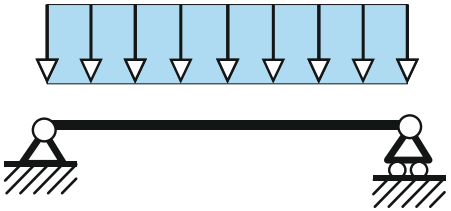

2. Statica del corpo rigido: forze esterne

Forza concentrata $\mathbf{F}$

$(P, \mathbf{F})$

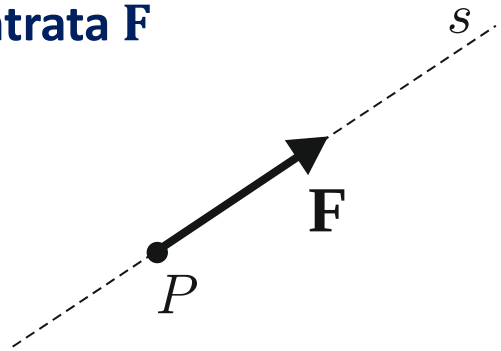

s: retta d'azione
P: punto di applicazione
$|\mathbf{F}|, F$: modulo o intensità $[F]$

Dimensioni fisiche $[F]$, unità di misura N

Momento di una forza rispetto ad un polo O, $\mathbf{M}_O$

$$\mathbf{M}_O = \mathbf{OP} \times \mathbf{F}$$

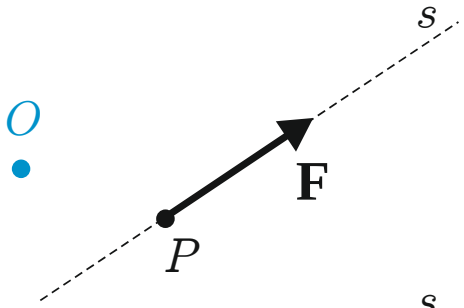

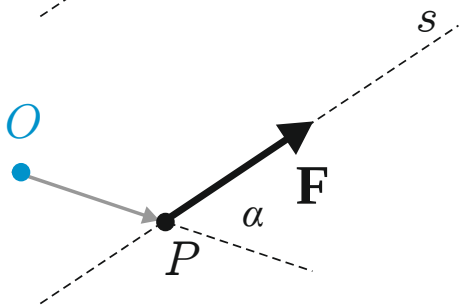

2. Statica del corpo rigido: forze esterne

Forza concentrata F

$(\boldsymbol{P}, \mathbf{F})$

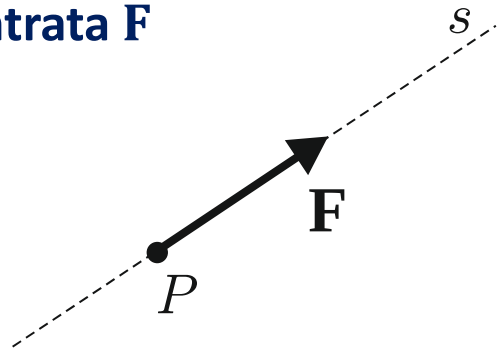

s: retta d'azione
P: punto di applicazione
$|\mathbf{F}|, F$*: modulo o intensità* $[F]$

Dimensioni fisiche $[F]$*, unità di misura N*

Momento di una forza rispetto ad un polo O, $\mathbf{M}_O$

$$\mathbf{M}_O = \mathbf{OP} \times \mathbf{F}$$

direzione: perpendicolare al piano $(\mathbf{F}, \mathbf{OP})$
verso: regola della mano destra

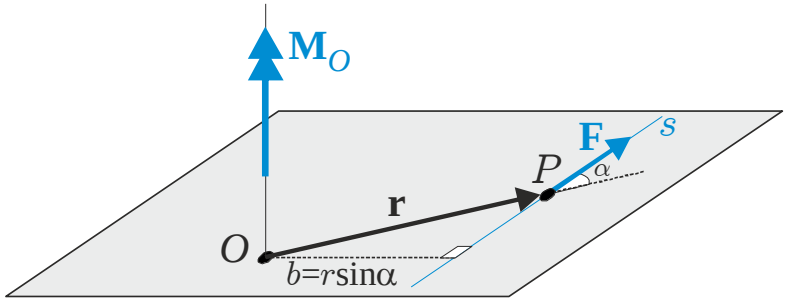

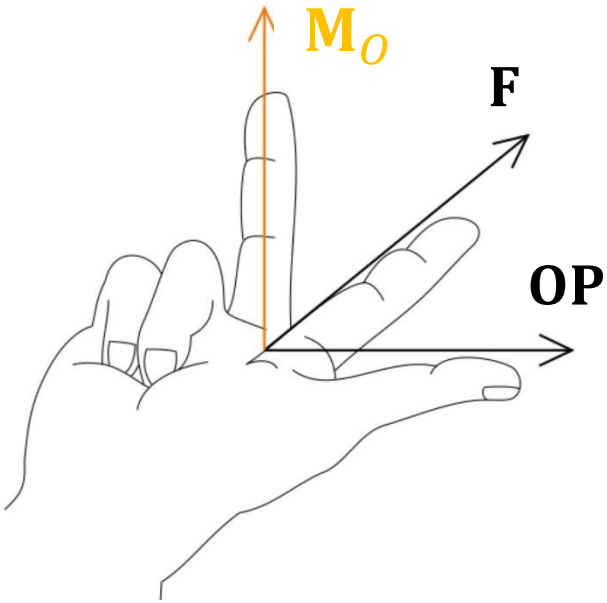

2. Statica del corpo rigido: forze esterne

Forza concentrata F

$(\boldsymbol{P}, \mathbf{F})$

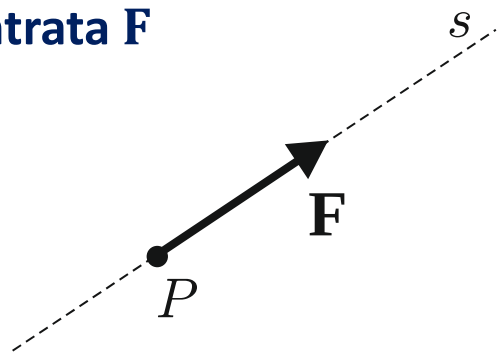

s: retta d'azione
P: punto di applicazione
$|\mathbf{F}|, F$*: modulo o intensità* $[F]$

Dimensioni fisiche $[F]$*, unità di misura N*

Momento di una forza rispetto ad un polo $\boldsymbol{O}$, $\mathbf{M}_{\boldsymbol{O}}$

$$\mathbf{M}_O = \mathbf{OP} \times \mathbf{F}$$

modulo o intensità: $|\mathbf{M}_{\boldsymbol{O}}|, M_O \quad [Fl]$

$$|\mathbf{M}_{\boldsymbol{O}}| = |\mathbf{F}||\mathbf{OP}|\sin(\alpha)$$

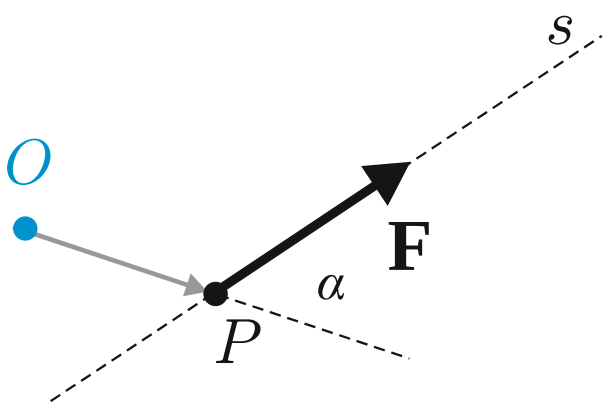

2. Statica del corpo rigido: forze esterne

Forza concentrata F

$(\boldsymbol{P}, \mathbf{F})$

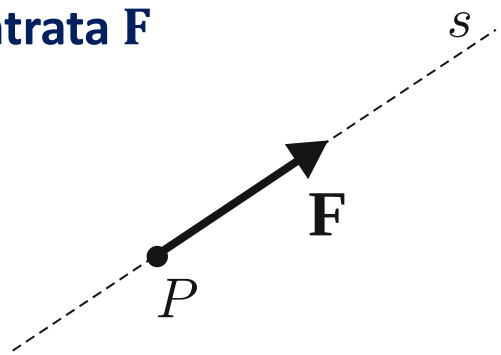

s: retta d'azione
P: punto di applicazione
$|\mathbf{F}|, F$*: modulo o intensità* $[F]$

Dimensioni fisiche $[F]$*, unità di misura N*

Momento di una forza rispetto ad un polo $\boldsymbol{O}$, $\mathbf{M}_{\boldsymbol{O}}$

$$\mathbf{M}_O = \mathbf{OP} \times \mathbf{F}$$

modulo o intensità: $|\mathbf{M}_{\boldsymbol{O}}|, M_O \quad [Fl]$

$$|\mathbf{M}_{\boldsymbol{O}}| = |\mathbf{F}||\mathbf{OP}|\sin(\alpha) = Fb$$

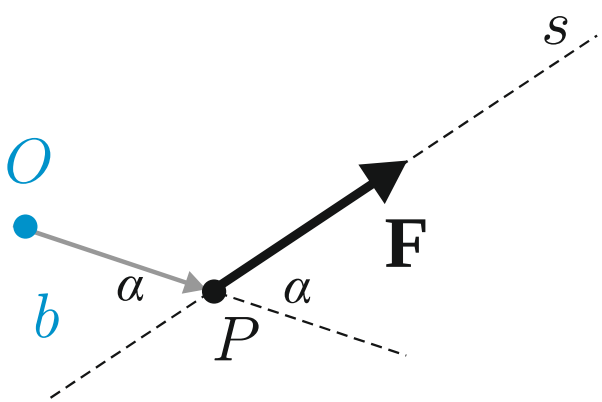

Braccio: distanza fra la retta d'azione di **F** *e il polo O*

$$b = |\mathbf{OP}|\sin(\alpha)$$

Dimensioni fisiche $[Fl]$*, unità di misura Nm*

2. Statica del corpo rigido: forze esterne

Momento di una forza

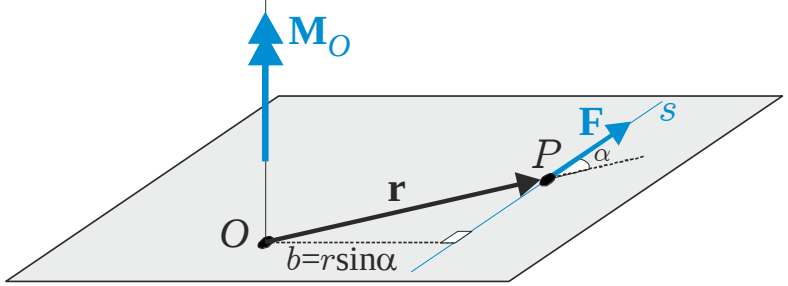

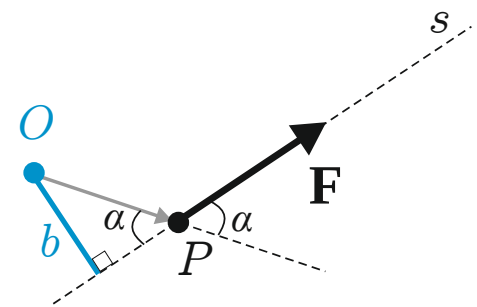

$$\mathbf{M}_O = \mathbf{OP} \times \mathbf{F}$$

$$|\mathbf{M}_O| = |\mathbf{F}||\mathbf{OP}|\sin(\alpha) = Fb$$

$$m = \pm Fb$$

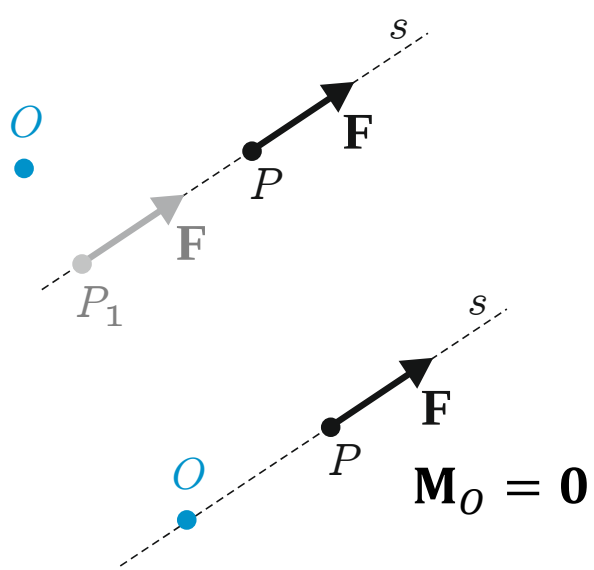

$$\mathbf{M}_O = \mathbf{0}$$

Osservazioni

Osservazione 1:
Se il punto di applicazione P si sposta sulla retta d'azione s, il momento della forza **F** *rispetto al polo O non cambia*

Osservazione 2:
Se la retta d'azione r della forza passa per il polo O il ***momento rispetto al polo O è nullo***

2. Statica del corpo rigido: Braccio

2. Statica del corpo rigido: forze esterne

Momento di una forza: cambiamento del polo

Si assuma un polo Ω distinto da O :
che relazione c'è fra $\mathbf{M}_\Omega$ *e* $\mathbf{M}_O$ *?*

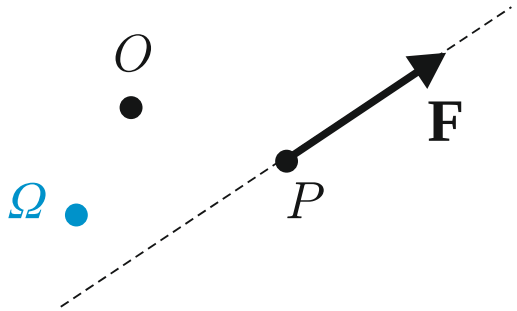

$$\mathbf{M}_\Omega = \mathbf{\Omega P} \times \mathbf{F} \qquad \mathbf{M}_O = \mathbf{OP} \times \mathbf{F}$$

$$\mathbf{M}_\Omega = (\mathbf{\Omega O} + \mathbf{OP}) \times \mathbf{F} = \mathbf{\Omega O} \times \mathbf{F} + \mathbf{OP} \times \mathbf{F}$$

$$\boxed{\mathbf{M}_\Omega = \mathbf{M}_O + \mathbf{\Omega O} \times \mathbf{F}}$$

Formula di trasporto del momento

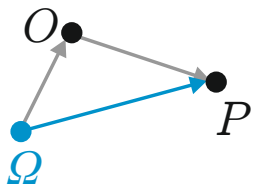

$$\mathbf{\Omega P} = \mathbf{\Omega O} + \boldsymbol{OP}$$

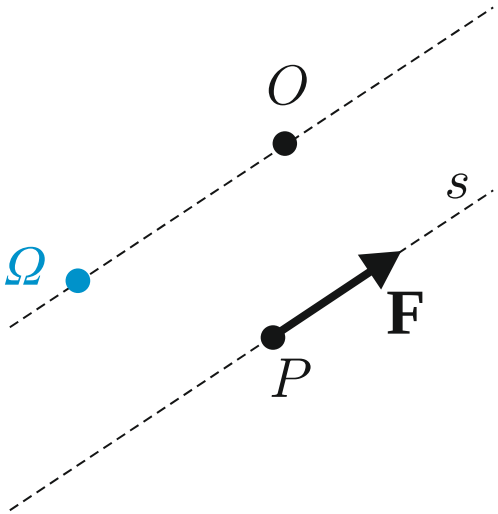

Osservazione 3:
Se $\mathbf{\Omega O} // \mathbf{F}$ *(cioè se Ω si trova in una retta parallela alla forza e passante per O) allora* $\mathbf{\Omega P} \times \mathbf{F} = \mathbf{0}$ *e* $\mathbf{M}_\Omega = \mathbf{M}_O$. *I momenti di una forza rispetto a punti che si trovano su una retta parallela alla sua direzione sono uguali*

2. Statica del corpo rigido: forze esterne

Sistema di forze Γ: definizioni

$$\Gamma: (P_i, \mathbf{F}_i), i = 1, \dots, N$$

***Risultante* R**

$|\mathbf{R}|$, *R: modulo o intensità.* *Dimensioni fisiche* $[F]$, *unità di misura N*

$$\mathbf{R} = \mathbf{F_1} + \mathbf{F_2} + \cdots + \mathbf{F_N} = \sum_{i=1}^{N} \mathbf{F_i}$$

***Momento risultante* $\mathbf{M_O}$**

$|\mathbf{M_O}|$ *: modulo o intensità.* *Dimensioni fisiche* $[FL]$, *unità di misura Nm*

$$\mathbf{M}_O = \mathbf{OP_1} \times \mathbf{F_1} + \cdots + \mathbf{OP}_N \times \mathbf{F}_N = \sum_{i=1}^{N} \mathbf{OP}_i \times \mathbf{F}_i = \sum_{i=1}^{N} \mathbf{M}_{Oi}$$

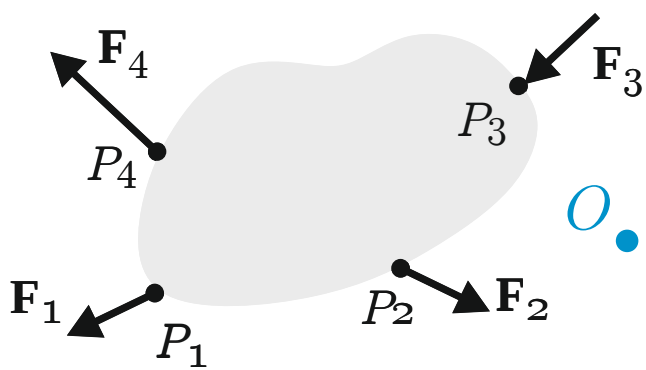

2. Statica del corpo rigido: forze esterne

Momento risultante di un sistema: cambiamento del polo

Si assuma un polo Ω distinto da O : che relazione c'è fra $\mathbf{M}_\Omega$ *e* $\mathbf{M}_O$ *?*

$$\mathbf{M}_\Omega = \sum_{i=1}^{N} \mathbf{M}_{\Omega i} \qquad \mathbf{M}_O = \sum_{i=1}^{N} \mathbf{M}_{Oi} \qquad \mathbf{M}_{\Omega i} = \mathbf{M}_{Oi} + \mathbf{\Omega O} \times \mathbf{F}_i$$

(Formula di trasporto del momento)

$$\mathbf{M}_\Omega = \sum_{i=1}^{N} \mathbf{M}_{\Omega i} = \sum_{i=1}^{N} (\mathbf{M}_{Oi} + \mathbf{\Omega O} \times \mathbf{F}_i) = \underbrace{\sum_{i=1}^{N} \mathbf{M}_{Oi}}_{\mathbf{M}_O} + \mathbf{\Omega O} \times \underbrace{\sum_{i=1}^{N} \mathbf{F}_i}_{\mathbf{R}}$$

$$\boxed{\mathbf{M}_\Omega = \mathbf{M}_O + \mathbf{\Omega O} \times \mathbf{R}}$$

Formula di trasporto del momento risultante

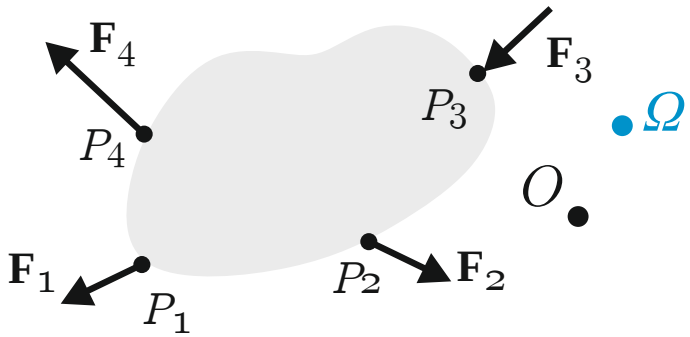

Osservazione

Se $\mathbf{R} = \mathbf{0}$ *(cioè nei sistemi a risultante nulla) allora* $\mathbf{M}_\Omega = \mathbf{M}_O$ *comunque si scelgano Ω e O:* ***nei sistemi a risultante nulla il momento risultante non dipende dal polo scelto***

2. Statica del corpo rigido: forze esterne

Sistemi a risultante nulla: coppia di forze

Si definisce coppia di forze un sistema costituito da due forze ($\mathbf{F}_1$, $\mathbf{F}_2$) che hanno: stessa direzione, stesso modulo, versi opposti; risulta quindi: $\mathbf{R} = \mathbf{F}_1 + \mathbf{F}_2 = \mathbf{0}$.

Per l'osservazione precedente: il momento risultante di una coppia di forze non dipende dal polo scelto.

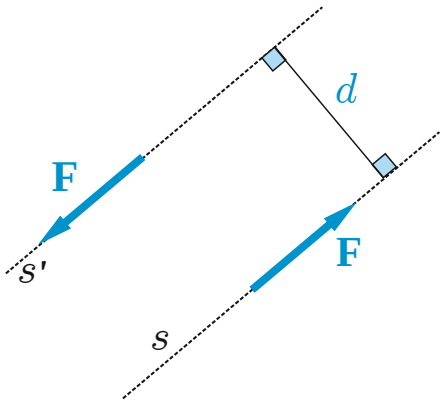

2. Statica del corpo rigido: forze esterne

Sistemi a risultante nulla: coppia di forze

Si definisce coppia di forze un sistema costituito da due forze ($\mathbf{F}_1$, $\mathbf{F}_2$) che hanno: stessa direzione, stesso modulo, versi opposti; risulta quindi: $\mathbf{R} = \mathbf{F}_1 + \mathbf{F}_2 = \mathbf{0}$.

Per l'osservazione precedente: il momento risultante di una coppia di forze non dipende dal polo scelto.

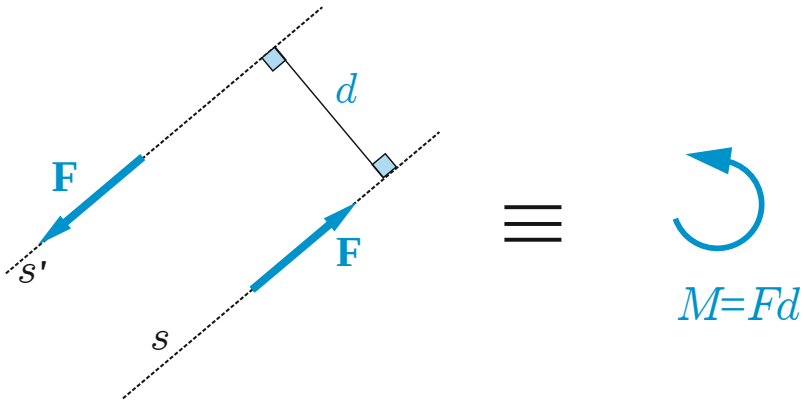

$$m = M_O = Fd$$

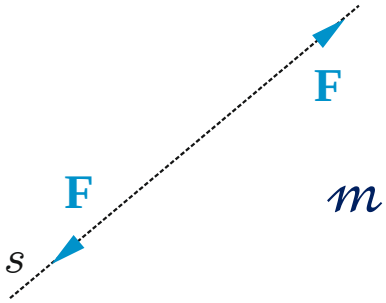

$$m = 0$$

$$m = +Fd$$

$$m = -Fd$$

2. Statica del corpo rigido: forze esterne

Sistemi staticamente equivalenti

*Due sistemi distinti di forze, Γ e Γ', si dicono staticamente **equivalenti** se hanno lo stesso risultante e lo stesso momento risultante rispetto ad un polo O scelto arbitrariamente*

$$\Gamma: (P_i, \mathbf{F}_i), i = 1, \dots, N \qquad \Gamma': (Q_j, \mathbf{F}'_j), j = 1, \dots, M$$

$$\mathbf{R} = \sum_{i=1}^{N} \mathbf{F}_i \qquad \mathbf{M}_O = \sum_{i=1}^{N} \mathbf{OP}_i \times \mathbf{F}_i \qquad \mathbf{R}' = \sum_{j=1}^{M} \mathbf{F}'_j \qquad \mathbf{M}'_O = \sum_{j=1}^{M} \mathbf{OQ}_j \times \mathbf{F}'_j$$

$$\boxed{\begin{cases} \mathbf{R} = \mathbf{R}' \\ \mathbf{M}_O = \mathbf{M}'_O \end{cases}}$$

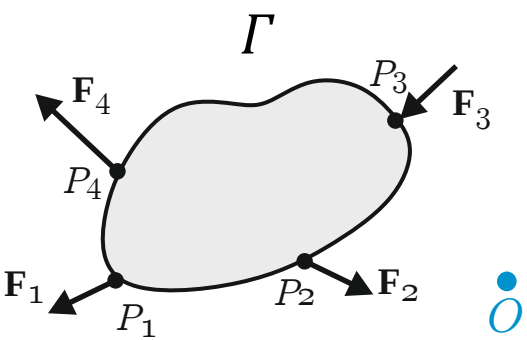

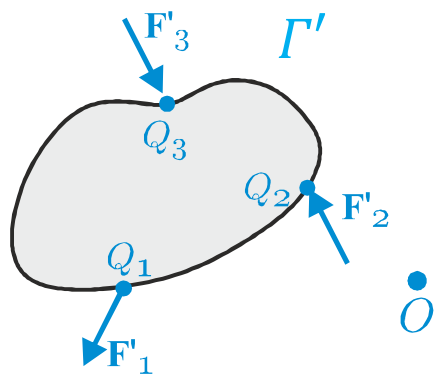

Proprietà

Due sistemi staticamente equivalenti hanno sempre lo stesso momento risultante rispetto ad un qualsiasi polo comunque scelto

2. Statica del corpo rigido: forze esterne

Sistemi nulli o equivalenti a 0

Un sistema di forze si dice nullo o equivalente a 0 se ha nulli risultante e momento risultante rispetto ad un polo O scelto arbitrariamente

$$\Gamma_{\#}: (P_i, \mathbf{F}_i), i = 1, \dots, N$$

$$\boxed{\begin{cases} \mathbf{R} = \mathbf{0} \\ \mathbf{M}_O = \mathbf{0} \end{cases}}$$

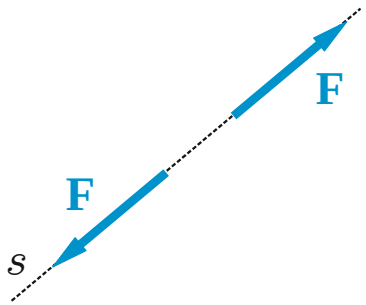

Proprietà

Il momento risultante di un sistema equivalente a 0 è sempre nullo, comunque si scelga il polo.

2. Statica del corpo rigido: forze esterne

Sistemi staticamente equilibrati

Due sistemi distinti di forze, Γ e Γ', si dicono staticamente equilibrati se hanno uguali e opposti risultante e momento risultante rispetto ad un polo O scelto arbitrariamente

$$\Gamma: (P_i, \mathbf{F}_i), i = 1, \dots, N \qquad \Gamma': (Q_j, \mathbf{F}'_j), j = 1, \dots, M$$

$$\mathbf{R} = \sum_{i=1}^{N} \mathbf{F}_i \qquad \mathbf{M}_O = \sum_{i=1}^{N} \mathbf{OP}_i \times \mathbf{F}_i \qquad \mathbf{R}' = \sum_{j=1}^{M} \mathbf{F}'_j \qquad \mathbf{M}'_O = \sum_{j=1}^{M} \mathbf{OQ}_j \times \mathbf{F}'_j$$

$$\boxed{\begin{cases} \mathbf{R} = -\mathbf{R}' \\ \mathbf{M}_O = -\mathbf{M}'_O \end{cases}} \Longrightarrow \boxed{\begin{cases} \mathbf{R} + \mathbf{R}' = \mathbf{0} \\ \mathbf{M}_O + \mathbf{M}'_O = \mathbf{0} \end{cases}}$$

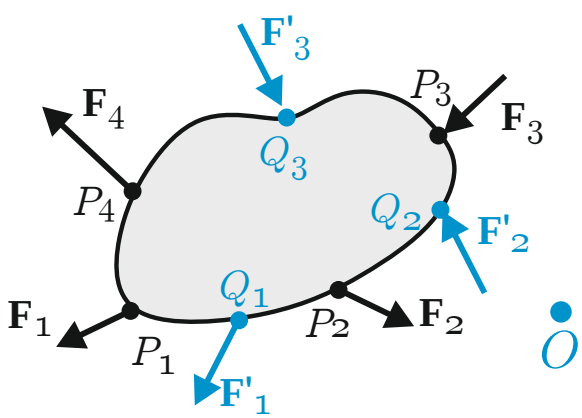

Proprietà

Se Γ e Γ' sono due sistemi equilibrati, allora il sistema $\Gamma \cup \Gamma'$ è un sistema nullo

2. Statica del corpo rigido: forze esterne

Sistemi piani di forze

*Un sistema di forze si dice **piano** se tutti i vettori forza sono paralleli ad uno stesso piano π. Rispetto ad un polo O scelto sul piano π, i vettori momento delle forze sono tutti paralleli e perpendicolari a π.*

Componenti cartesiane

Scelto un sistema cartesiano in cui il piano coordinato xy coincide con π, si ha per il risultante e il vettore risultante

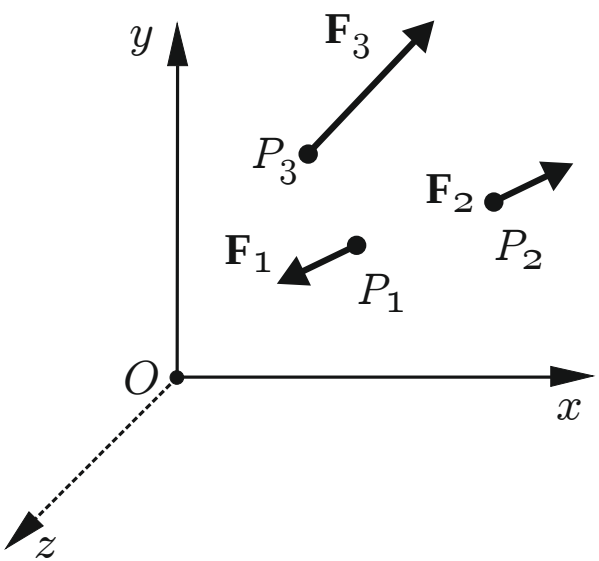

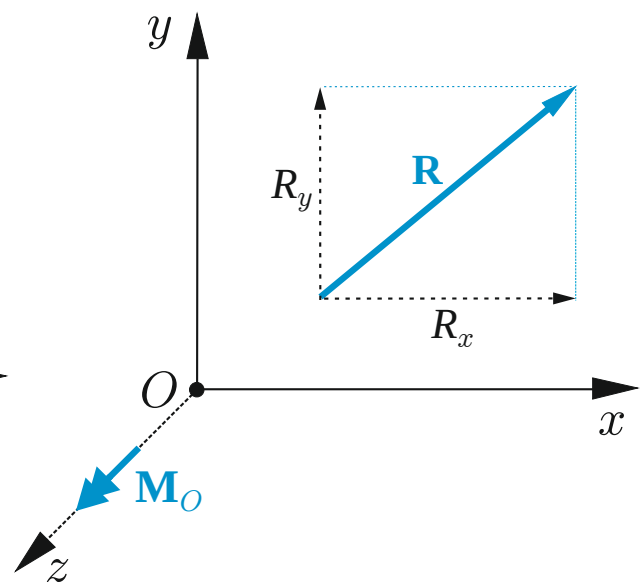

$$\mathbf{R} = R_x\mathbf{i} + R_y\mathbf{j}$$
$$\mathbf{M}_O = M_O\mathbf{k}$$

Coppia di forze nel piano

$$\mathbf{M} = m\mathbf{k}$$

Convenzioni

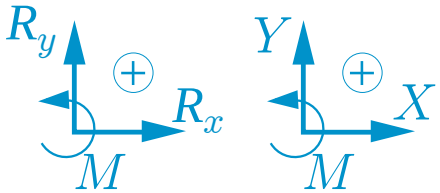

2. Statica del corpo rigido: forze esterne

Densità di forza

Spesso le forze esterne agiscono su una porzione finita del corpo o su ogni punto dell'intero corpo/sistema di corpi. Es: forza di gravità, pressione di un fluido su una parete etc. Per modellare questo tipo di azione si introduce il vettore densità di forza $\mathbf{b}(P)$

$$\mathbf{b}(P) = \lim_{\Delta C \to 0} \frac{\Delta \mathbf{F}}{\Delta C}$$

dove ΔC è un intorno (di volume, di superficie o di linea) finito del punto P, $\Delta \mathbf{F}$ è la risultante delle forze agenti su tale intorno.

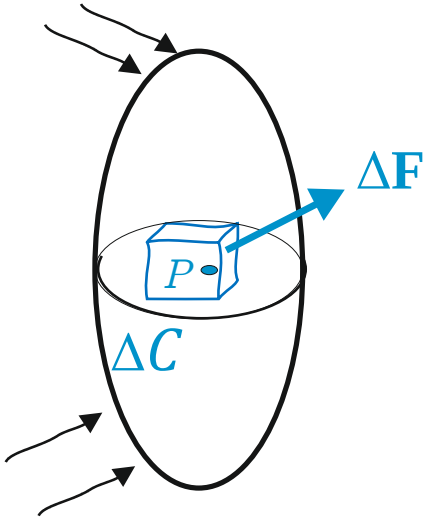

$[b] = [FL^{-3}]$

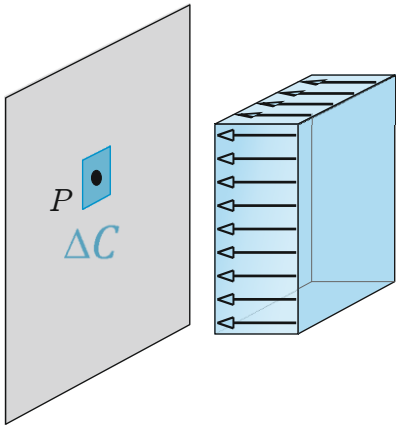

$[b] = [FL^{-2}]$

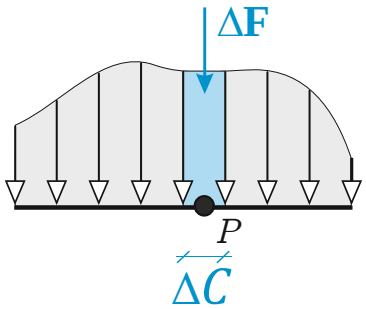

$[b] = [FL^{-1}]$

2. Statica del corpo rigido: forze esterne

Densità di forza per unità di linea

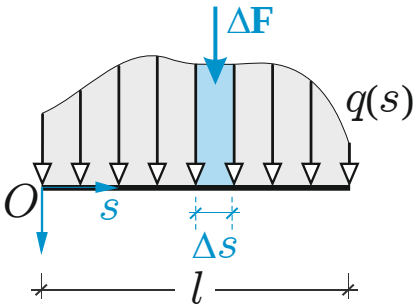

$$\mathbf{b}(s) = \lim_{\Delta s \to 0} \frac{\Delta \mathbf{F}}{\Delta s}$$

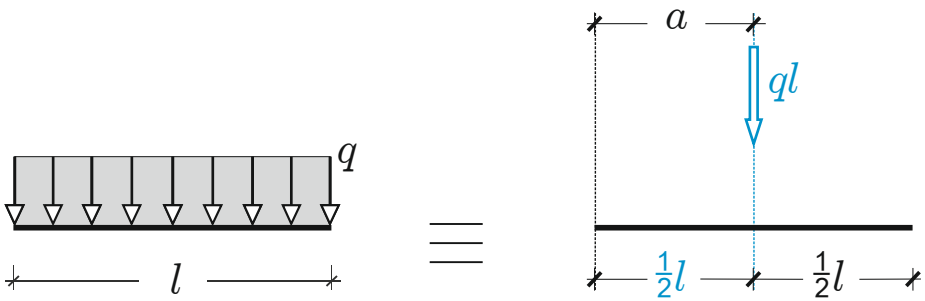

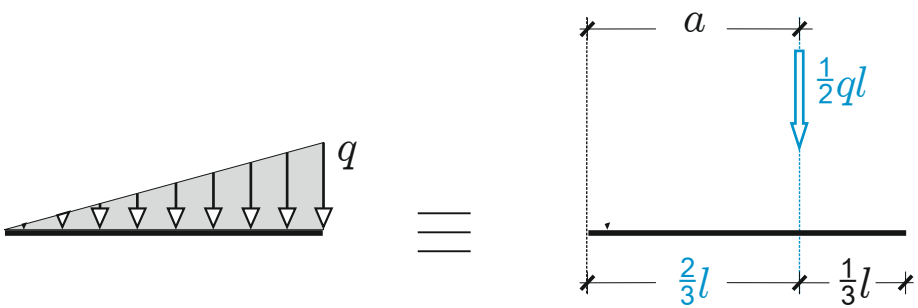

2. Statica del corpo rigido: i vincoli

Definizioni. Gli elementi strutturali devono essere collegati fra di loro e con gli elemnti fissi esterni alla struttura (*suolo*). I dispositivi di connessione che realizzano ciò sono detti *vincoli*. I vincoli che collegano gli elementi strutturali con il suolo sono detti **esterni**, i vincoli che collegano due elementi della stessa struttura sono detti **interni**.

Modello dei vincoli. I vincoli sono modellati assimilandoli a dispositivi ideali che presentano le seguenti caratteristiche: sono *puntiformi*, *lisci* (privi di attrito) e *bilaterali*. Si ammetterà inoltre valida *l'ipotesi dei piccoli spostamenti*.

Prestazioni statiche. Dal punto di vista statico i vincoli sono in grado di erogare delle forze e/o coppie di forze nei punti dei corpi cui sono applicati (Postulato di Kirchhoff); si tratta di forze esterne reattive chiamate anche **reazioni vincolari**.

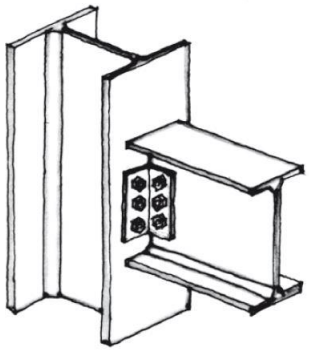

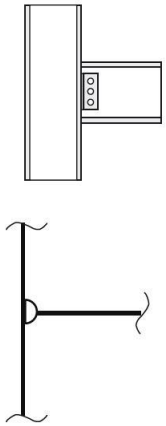

1. Cinematica del corpo rigido: i vincoli

Molteplicità statica m. Analiticamente le prescrizioni statiche dei vincoli si traducono in forze concentrate e/o coppie: si definisce **molteplicità statica** del vincolo il numero m di componenti scalari indipendenti delle reazioni vincolari che il vincolo è in grado di erogare. Come si vedrà, molteplicità statica e cinematica m coincidono.

Tipologie ideali di vincolo. In base al tipo di prescrizioni statiche e alla molteplicità m si possono distinguere le stesse tipologie di vincolo (esterni o interni) viste in cinematica, ad esempio:

- Pendolo o biella, $m = 1$ (vincolo semplice)
- Carrello, $m = 1$ (vincolo semplice)
- Cerniera, $m = 2$ (vincolo doppio)
- Glifo o doppio pendolo, $m = 2$ (vincolo doppio)
- Incastro, $m = 3$ (vincolo triplo)

2. Statica del corpo rigido: i vincoli

Vincoli esterni

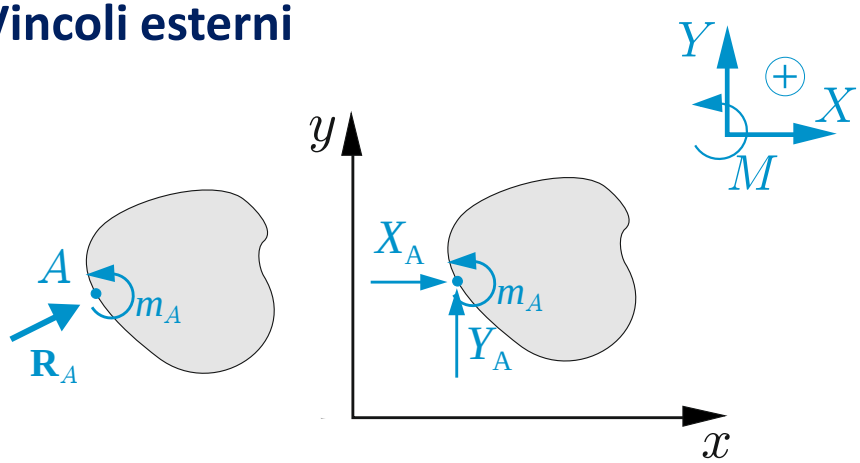

Un vincolo esterno applicato in un punto A del corpo può imporre una forza concentrata $\mathbf{R}_A$ nel punto A in cui è applicato e una coppia di forze $\mathbf{M}_A$

Nel piano:

$\mathbf{R}_A = X_A\mathbf{i} + Y_A\mathbf{j}$ $\qquad$ $\mathbf{M}_A = m_A\mathbf{k}$

Reazioni vincolari scalari:

$$X_A, Y_A, m_A$$

(Il pedice A indica il punto in cui è applicato il vincolo)

Vincoli interni fra due corpi

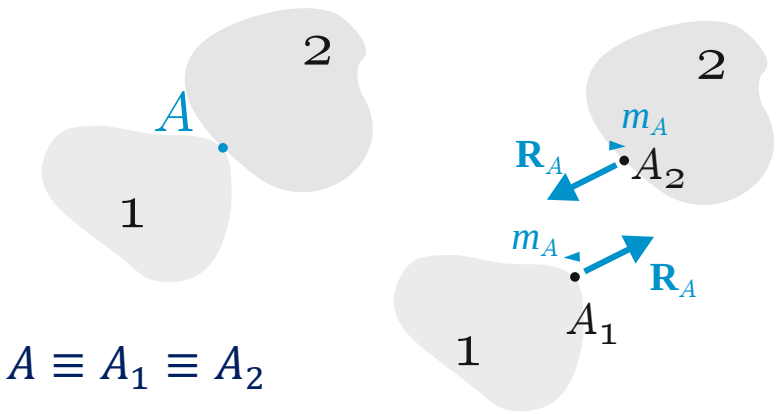

$A \equiv A_1 \equiv A_2$

Un vincolo interno applicato in un punto $A \equiv A_1 \equiv A_2$ di due corpi può imporre forze e/o coppie in A_1 e forze e/o coppie ***uguali e opposte*** *in A_2 (principio di azione e reazione)*

2. Statica del corpo rigido: i vincoli

Vincoli esterni

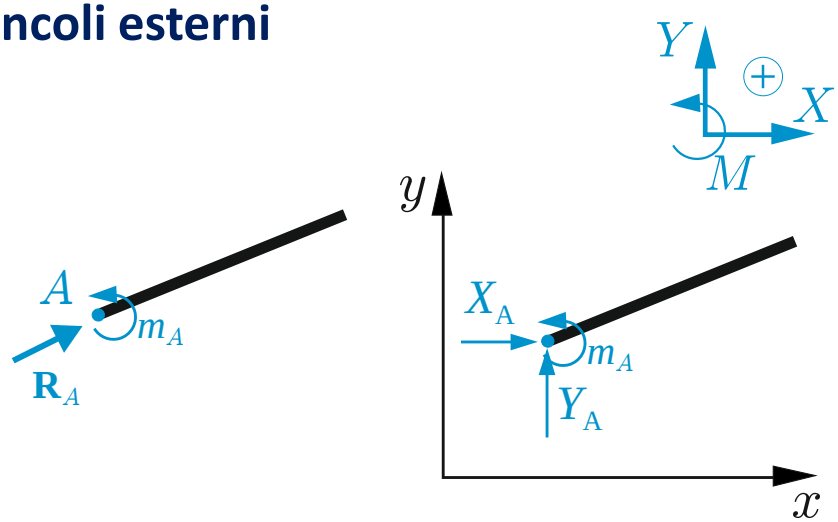

Un vincolo esterno applicato in un punto A del corpo può imporre una forza concentrata $\mathbf{R}_A$ nel punto A in cui è applicato e una coppia di forze $\mathbf{M}_A$

Nel piano:

$\mathbf{R}_A = X_A\mathbf{i} + Y_A\mathbf{j}$ $\qquad$ $\mathbf{M}_A = m_A\mathbf{k}$

Reazioni vincolari scalari:

$$X_A, Y_A, m_A$$

(Il pedice A indica il punto in cui è applicato il vincolo)

Vincoli interni fra due corpi

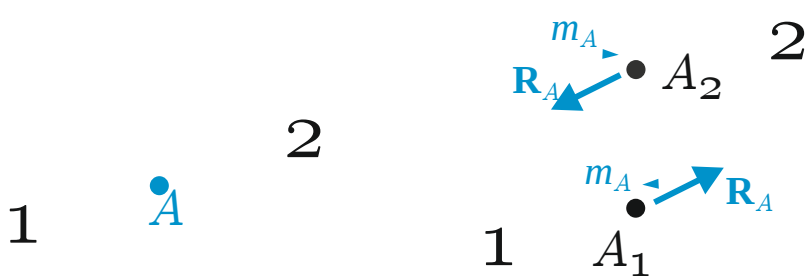

$A \equiv A_1 \equiv A_2$

Un vincolo interno applicato in un punto $A \equiv A_1 \equiv A_2$ di due corpi può imporre forze e/o coppie in A_1 e forze e/o coppie ***uguali e opposte*** *in A_2 (principio di azione e reazione)*

2. Statica del corpo rigido: i vincoli

Carrello esterno

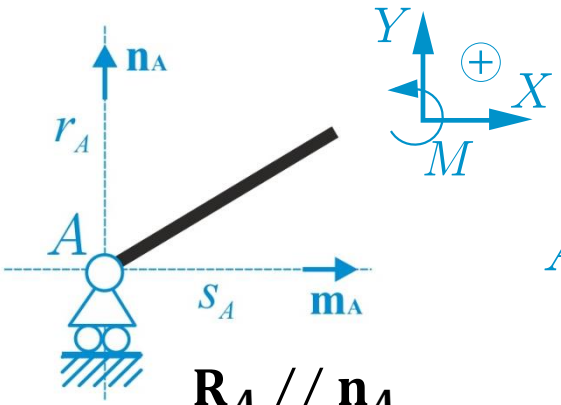

$\mathbf{R}_A \,//\, \mathbf{n}_A$

$m_A = 0$

Reazioni vincolari *indipendenti*: 1

Può erogare in A una forza di modulo e verso qualsiasi, ma parallela all'asse r_A

$$\begin{cases} X_A = 0 \\ Y_A \neq 0 \\ m_A = 0 \end{cases}$$

$$m = 1$$

Prestazioni statiche

$$\begin{cases} u_A \neq 0 \\ v_A = 0 \\ \theta \neq 0 \end{cases}$$

$$m = 1$$

Prestazioni cinematiche

$$X_A\, u_A + Y_A\, v_A + m_A \theta = 0$$

2. Statica del corpo rigido: i vincoli

Carrello esterno

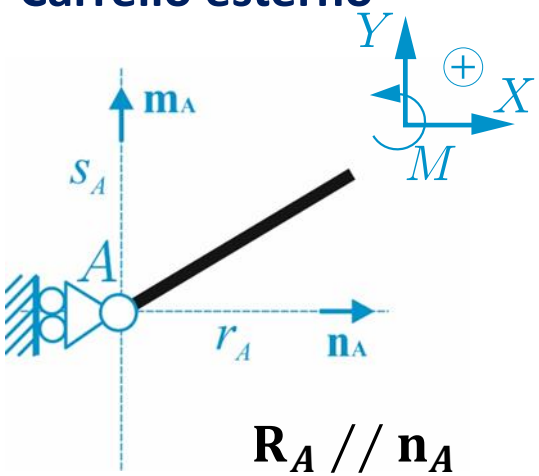

$\mathbf{R}_A \,//\, \mathbf{n}_A$

$m_A = 0$

Può erogare in A una forza di modulo e verso qualsiasi, ma parallela all'asse r_A

$$\begin{cases} X_A \neq 0 \\ Y_A = 0 \\ m_A = 0 \end{cases}$$

$$m = 1$$

Prestazioni statiche

$$\begin{cases} u_A = 0 \\ v_A \neq 0 \\ \theta \neq 0 \end{cases}$$

$$m = 1$$

Prestazioni cinematiche

$$X_A\, u_A + Y_A\, v_A + m_A \theta = 0$$

2. Statica del corpo rigido: i vincoli

Carrello esterno

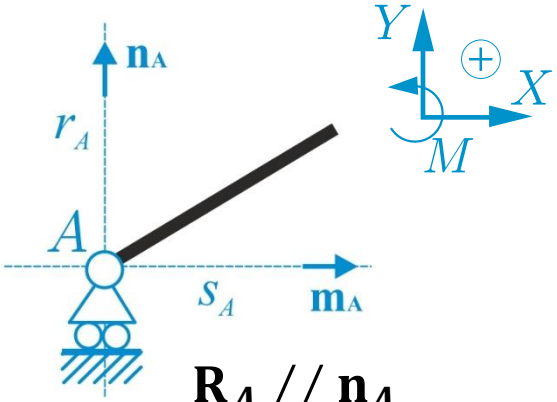

$\mathbf{R}_A \,//\, \mathbf{n}_A$

$m_A = 0$

Può erogare in A una forza di modulo e verso qualsiasi, ma parallela all'asse r_A

Reazioni vincolari *indipendenti*: 1

$$\begin{cases} X_A = 0 \\ Y_A \neq 0 \\ m_A = 0 \end{cases}$$

$$m = 1$$

Prestazioni statiche

Carrello interno

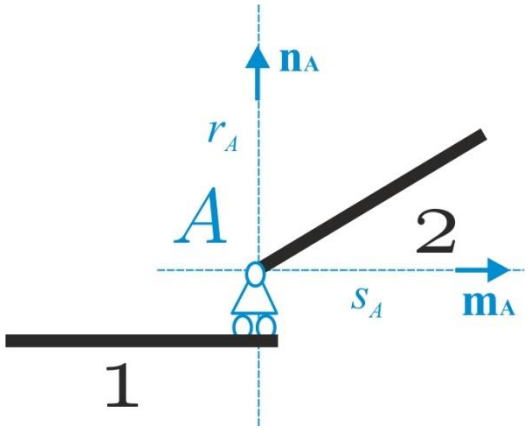

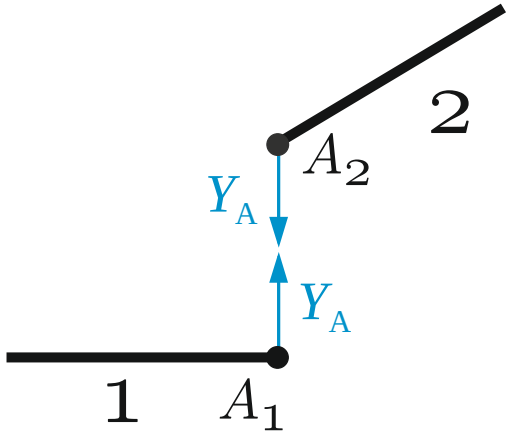

Reazioni vincolari *indipendenti*: 1

$$\begin{cases} X_A = 0 \\ Y_A \neq 0 \\ m_A = 0 \end{cases}$$

$$m = 1$$

Prestazioni statiche

2. Statica del corpo rigido: i vincoli

Cerniera esterna

Può erogare in A una forza di modulo, verso e direzione **qualsiasi**

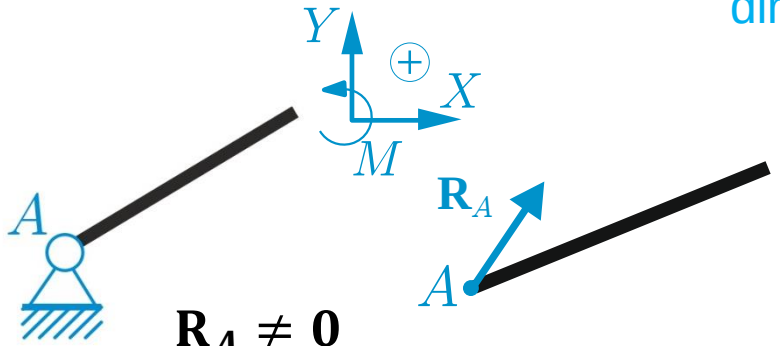

$$\mathbf{R}_A \neq \mathbf{0}$$
$$m_A = 0$$

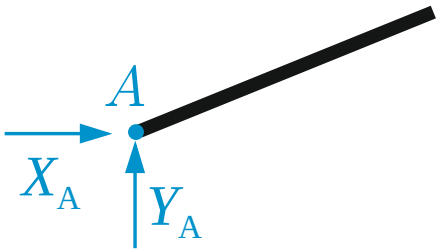

Reazioni vincolari *indipendenti*: 2

$$\begin{cases} X_A \neq 0 \\ Y_A \neq 0 \\ m_A = 0 \end{cases}$$

$$m = 2$$

Prestazioni statiche

Cerniera interna

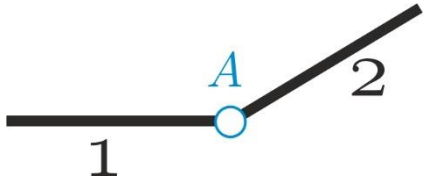

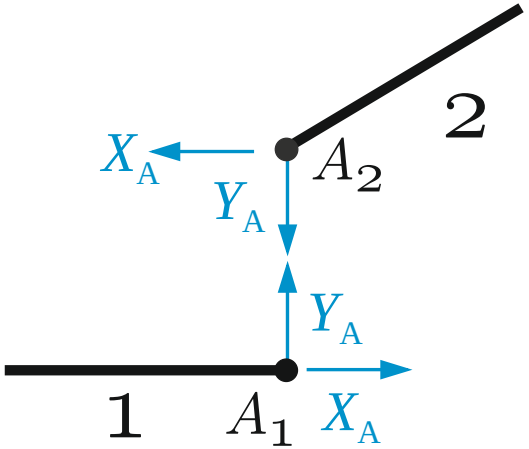

Reazioni vincolari *indipendenti*: 2

$$\begin{cases} X_A \neq 0 \\ Y_A \neq 0 \\ m_A = 0 \end{cases}$$

$$m = 2$$

Prestazioni statiche

2. Statica del corpo rigido: i vincoli

Glifo o doppio pendolo esterno

Può erogare in A una coppia e una forza di modulo e verso qualsiasi, ma parallela all'asse r_A

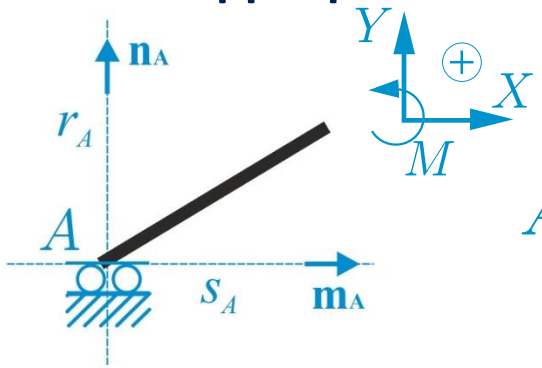

$\mathbf{R}_A \,//\, \mathbf{n}_A$

$m_A \neq 0$

Reazioni vincolari *indipendenti*: 2

$$\begin{cases} X_A = 0 \\ Y_A \neq 0 \\ m_A \neq 0 \end{cases}$$

$$m = 2$$

Prestazioni statiche

Glifo o doppio pendolo interno

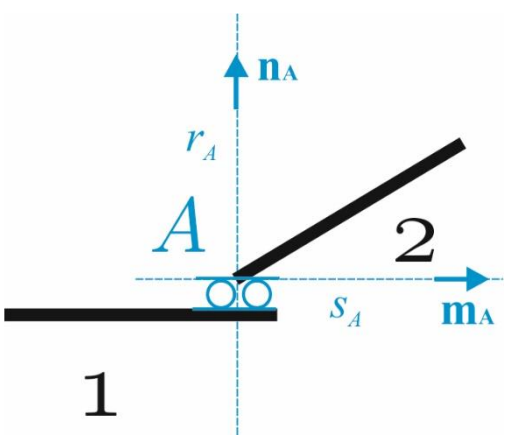

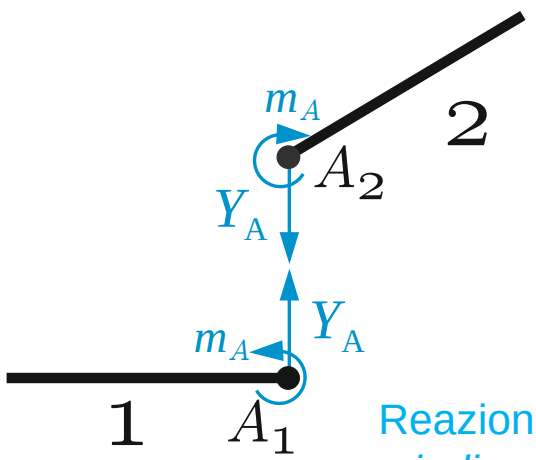

Reazioni vincolari *indipendenti*: 2

$$\begin{cases} X_A = 0 \\ Y_A \neq 0 \\ m_A \neq 0 \end{cases}$$

$$m = 2$$

Prestazioni statiche

2. Statica del corpo rigido: i vincoli

Incastro esterno

Può erogare in A una forza di modulo, verso e direzione **qualsiasi**



$\mathbf{R}_A \neq \mathbf{0}$

$m_A \neq 0$

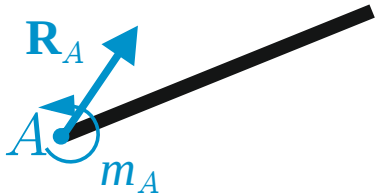

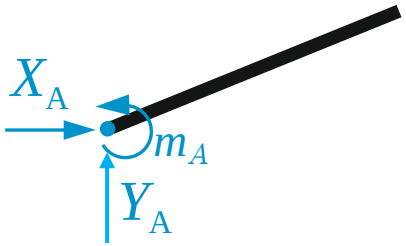

Reazioni vincolari *indipendenti*: 3

$$\begin{cases} X_A \neq 0 \\ Y_A \neq 0 \\ m_A \neq 0 \end{cases}$$

$$m = 3$$

Prestazioni statiche

Incastro interno (vincolo di continuità)

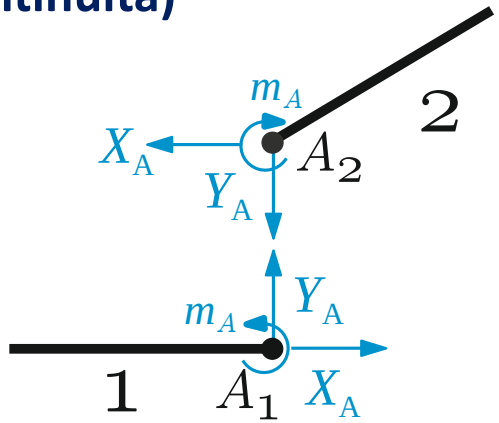

Reazioni vincolari *indipendenti*: 3

$$\begin{cases} X_A \neq 0 \\ Y_A \neq 0 \\ m_A \neq 0 \end{cases}$$

$$m = 3$$

Prestazioni statiche

2. Statica del corpo rigido: i vincoli

Vincoli interni che connettono più di due corpi

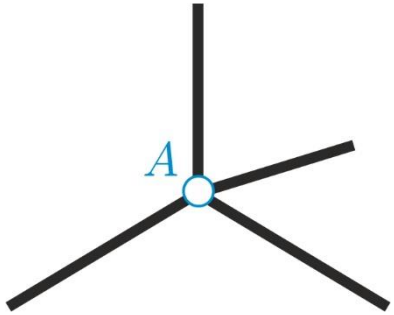

$m = 2(4\text{-}1)=6$

Molteplicità

$m = n_V(n_C\text{-}1)$

Rappresentazione grafica

$m = 2$

Cerniera che collega due travi alle estremità

$m = 2$

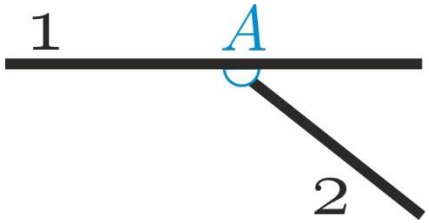

Cerniera che collega due travi non alle estremità

$m = 4$

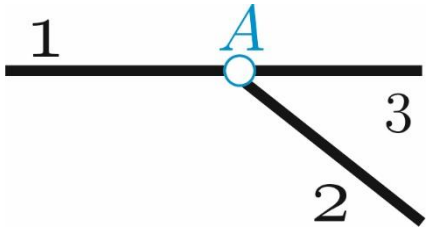

Cerniera che collega tre travi alle estremità

2. Statica del corpo rigido: equazioni cardinali

Equazioni cardinali della statica ($n_C = 1$)

Condizione necessaria e sufficiente affinché un corpo rigido sia in equilibrio sotto assegnate forze esterne attive e reattive è che il sistema di tali forze esterne sia nullo (cioè sia nullo il risultante e il momento risultante rispetto ad un polo O scelto arbitrariamente)

$$\begin{cases} \mathbf{R} = \mathbf{0} \\ \mathbf{M}_O = \mathbf{0} \end{cases}$$

Equazioni cardinali della statica (forma vettoriale)

Γ^e: forze esterne $(\mathbf{R}, \mathbf{M}_O)$ Γ^a: forze esterne attive $(\mathbf{R}^a, \mathbf{M}_O^a)$ Γ^v: forze esterne reattive $(\mathbf{R}^v, \mathbf{M}_O^v)$

$$\Gamma^e = \Gamma^a \cup \Gamma^v \quad \Rightarrow \quad \begin{cases} \mathbf{R}^a + \mathbf{R}^v = \mathbf{0} \\ \mathbf{M}_O^a + \mathbf{M}_O^v = \mathbf{0} \end{cases}$$

Equazioni cardinali della statica (forma vettoriale)

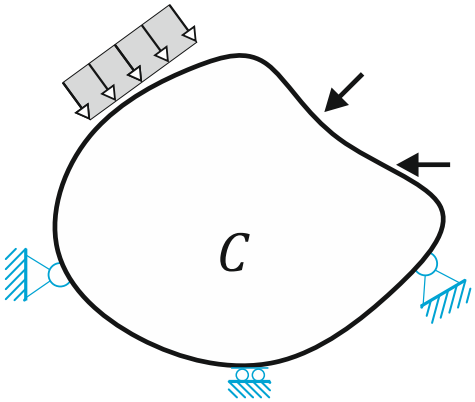

2. Statica del corpo rigido: equazioni cardinali

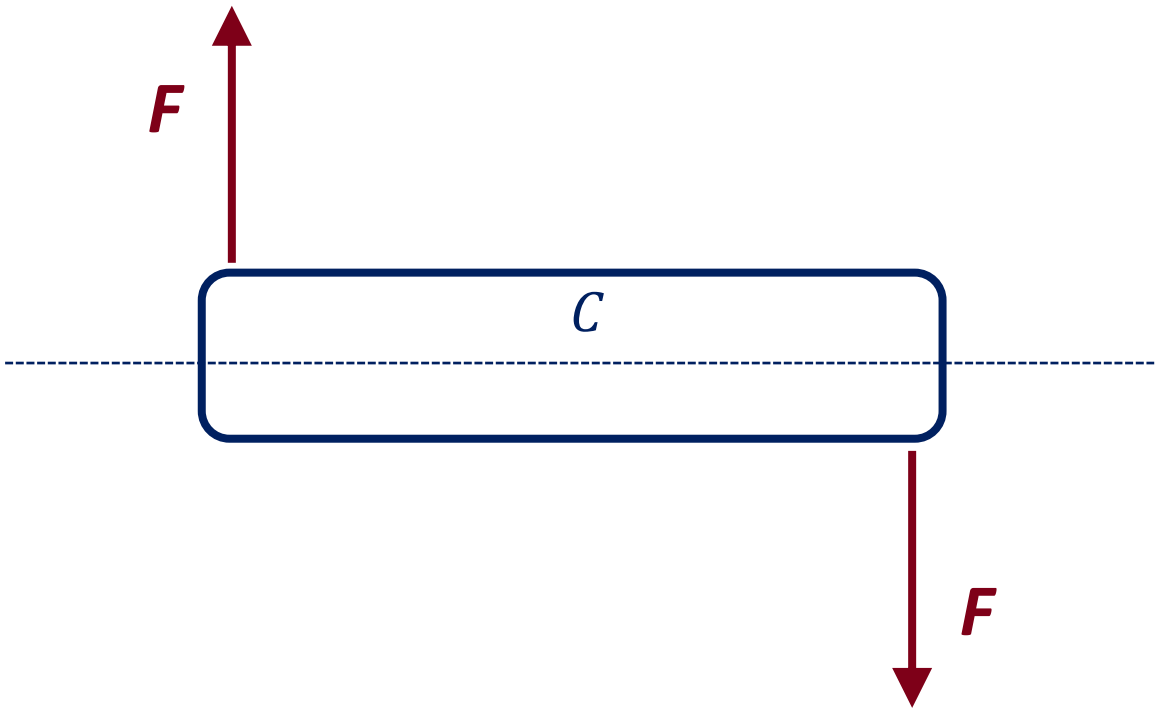

$$\begin{cases} \mathbf{R} = \mathbf{0} \\ \mathbf{M}_O \neq \mathbf{0} \end{cases}$$

C non è una configurazione di equilibrio

2. Statica del corpo rigido: equazioni cardinali

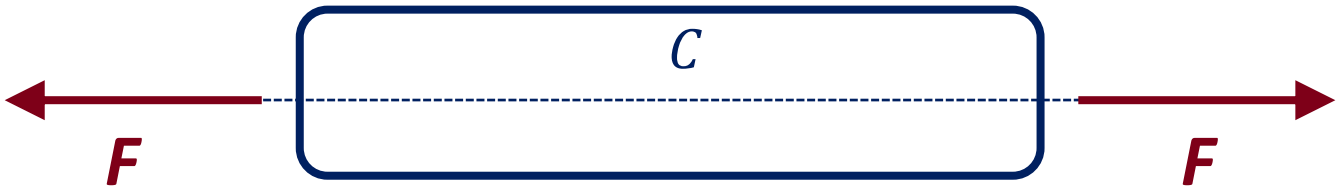

$$\begin{cases} \mathbf{R} = \mathbf{0} \\ \mathbf{M}_O = \mathbf{0} \end{cases}$$

2. Statica del corpo rigido: equazioni cardinali

Osservazione

Se il corpo è deformabile la condizione che il sistema delle forze esterne sia nullo in genere è necessaria ma ***non sufficiente*** *per l'equilibrio del corpo*

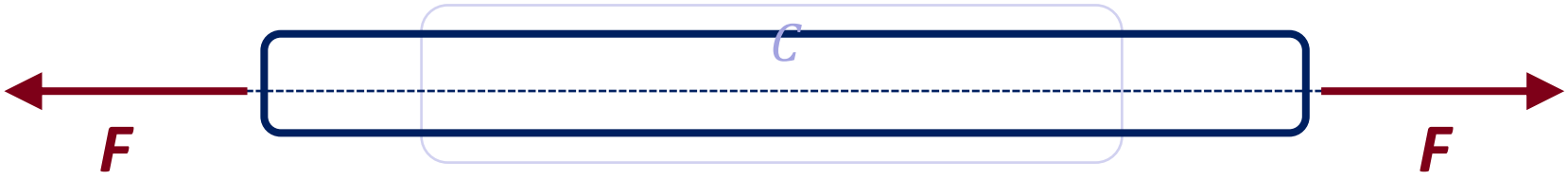

$$\begin{cases} \mathbf{R} = \mathbf{0} \\ \mathbf{M}_O = \mathbf{0} \end{cases}$$

2. Statica del corpo rigido: equazioni cardinali

Equazioni cardinali della statica ($n_C = 1$)

$$\begin{cases} \mathbf{R}^a + \mathbf{R}^v = \mathbf{0} \\ \mathbf{M}_O^a + \mathbf{M}_O^v = \mathbf{0} \end{cases}$$

$\mathbf{R}^a = X^a\mathbf{i} + Y^a\mathbf{j}$ $\quad$ $\mathbf{M}_O^a = \mathcal{M}_O^a\mathbf{k}$

$\mathbf{R}^v = X^v\mathbf{i} + Y^v\mathbf{j}$ $\quad$ $\mathbf{M}_O^v = \mathcal{M}_O^v\mathbf{k}$

$$\begin{cases} X^a + X^v = 0 \\ Y^a + Y^v = 0 \\ \mathcal{M}_O^a + \mathcal{M}_O^v = 0 \end{cases}$$

Equazioni cardinali della statica (forma scalare)

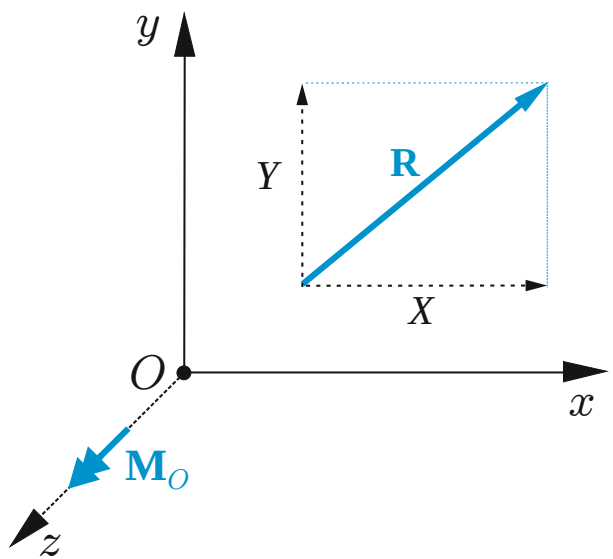

2. Statica del corpo rigido: equazioni cardinali

Equazioni cardinali della statica ($n_C > 1$)

Condizione necessaria e sufficiente affinché un sistema di n_C corpi rigidi sia in equilibrio sotto assegnate forze esterne attive e reattive è che il sistema delle forze esterne agenti su ciascun corpo sia nullo

$$\begin{cases} \boldsymbol{R}_{Oi} = \mathbf{0} \\ \mathbf{M}_{Oi} = \mathbf{0} \end{cases} \quad i = 1, \dots, n_C$$

Equazioni cardinali della statica (forma vettoriale)

$$\begin{cases} X_i^a + X_i^v = 0 \\ Y_i^a + Y_i^v = 0 \\ \mathcal{M}_{Oi}^a + \mathcal{M}_{Oi}^v = 0 \end{cases} \quad i = 1, \dots, n_C$$
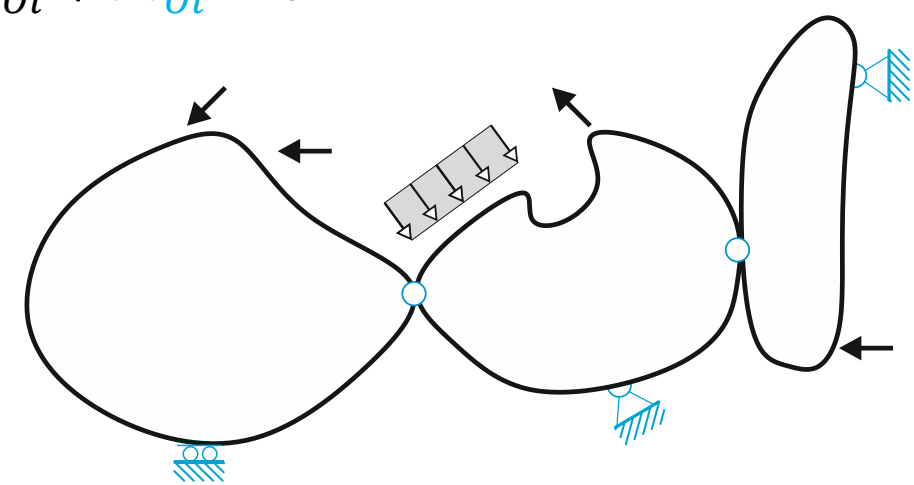
Equazioni cardinali della statica (forma scalare)